Generalitat de Catalunya
Consell Interuniversitari de Catalunya
Oficina d'Accés a la Universitat

2020

Proves d'accés a la universitat

Dibuix tècnic

Sèrie 1

Indiqueu les opcions triades:

Exercici 1: Opció A ☐ Opció B ☐

Exercici 2: Opció A ☐ Opció B ☐ Opció C ☐ Opció D ☐

Qualificació			TR
Exercicis	1		
	2		
Suma de notes parcials			
Qualificació final			

Etiqueta de l'alumne/a

Ubicació del tribunal .....

Número del tribunal .....

Etiqueta de qualificació

Etiqueta del corrector/a

La prova consisteix a fer DOS dibuixos. Per al primer, heu d'escollir UNA de les dues opcions del dibuix 1 (A o B). Per al segon, heu d'escollir UNA de les quatre opcions del dibuix 2 (A, B, C o D).

Els enunciats dels exercicis es donen, en alguns casos, amb el dibuix final ja iniciat per tal d'evitar-vos construccions prèvies innecessàries. Si el text de l'enunciat inclou alguna mesura d'un element no dibuixat sense fer referència a l'escala, s'ha d'entendre que el dibuix corresponent s'ha de fer a escala 1:1.

Resoleu cadascun dels dibuixos a la mateixa pàgina on figura l'enunciat.

Feu els dibuixos amb llapis i amb l'ajuda del material que considereu adequat. No es poden utilitzar models de figures geomètriques.

Deixeu constància de les línies auxiliars utilitzades i concreteu, amb valor de línia, el resultat.

En la qualificació de cadascun dels dibuixos, s'assignarà un màxim del 80 % de la puntuació corresponent al procés seguit i a la solució correcta; el 20 % restant es destinarà a valorar la qualitat gràfica.

Dibuix 1. Opció A

TEMA: Geometria plana.

EXERCICI [4 punts en total]: Dibuixeu el polígon còncau *ABCDEF* de manera que el vèrtex *C* quedi per sobre del segment *AB,* el vèrtex *E* per sobre del vèrtex *C* i el vèrtex *F* a la dreta del vèrtex *E.* Tingueu en compte les dades facilitades a peu de pàgina. Deixeu constància del procés gràfic seguit. [1 punt per cadascun dels segments *BC*, *CD*, *DE* i *EF*]

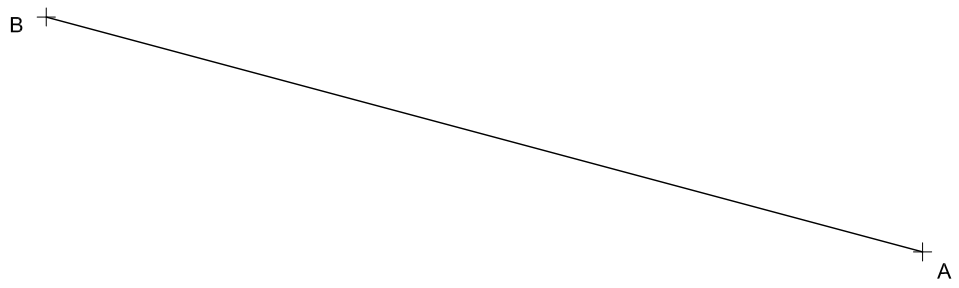

Angle ABC = 60°

Angle ACB = 90°

Vèrtex D = baricentre del triangle ABC

Angle ACE = 75°

Angle AEC = 60°

Angle CAF = 75°

Angle AFE = 105°

Dibuix 1. Opció B

Tema: Geometria plana.

Exercici [4 punts en total]:

a) Dibuixeu la circumferència de radi menor tangent a la recta *R* i a la circumferència de centre *C* en el punt *A*. [1,5 punts]

b) Dibuixeu la circumferència tangent a la circumferència de centre *C* en el punt *A* i que passa pel punt *B*. [1,5 punts]

c) Dibuixeu les dues circumferències de diàmetre 5 cm que són tangents exteriors a les dues circumferències trobades en els apartats *a* i *b*. [1 punt]

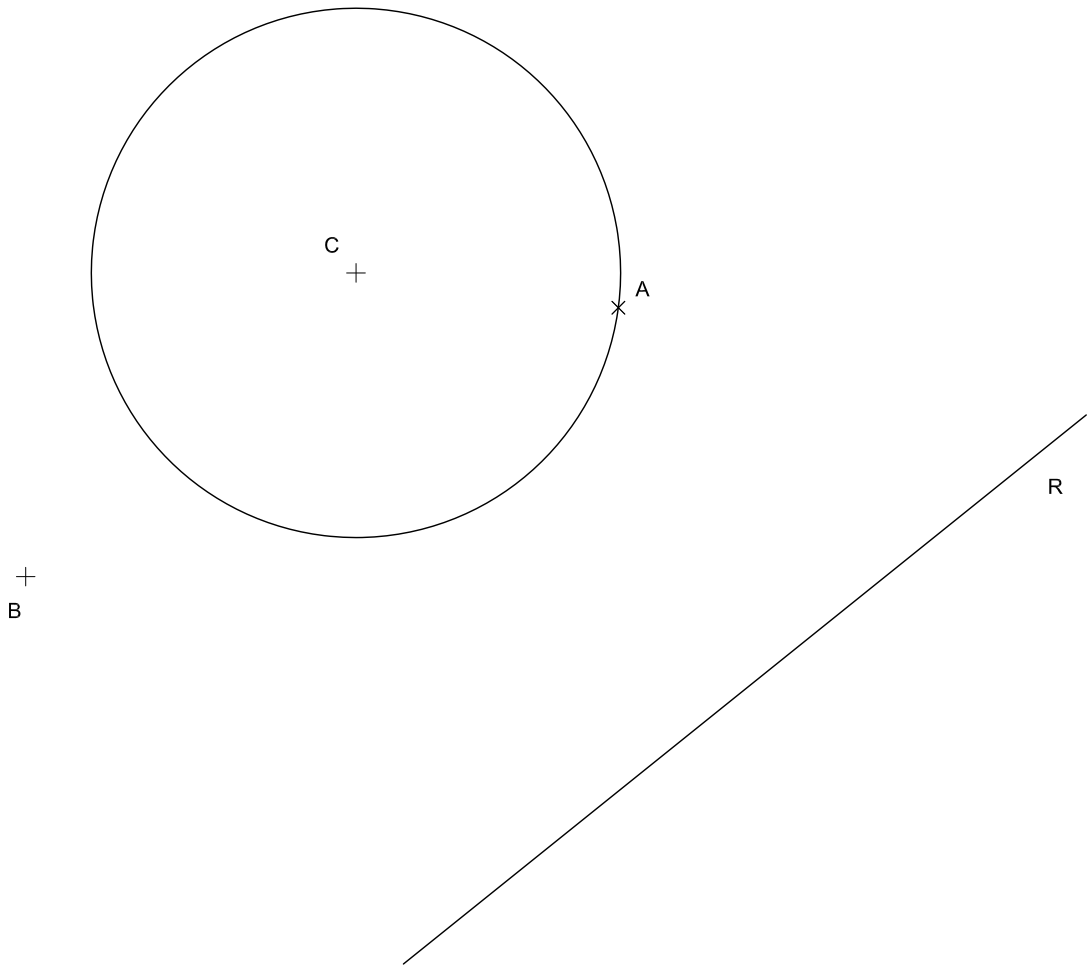

Dibuix 2. Opció A

Tema: Dièdric.

Exercici [6 punts en total]:

a) Dibuixeu les projeccions horitzontal i vertical de la línia d'intersecció que produeix el pla triangular determinat pels punts *r-r′*, *s-s′* i *t-t′*, sobre una piràmide que té com a vèrtex el punt *v-v′* i com a base el quadrat *abcd-a′b′c′d′*. [3 punts]

b) Determineu la visibilitat del conjunt format pel pla triangular *rst-r′s′t′* i la piràmide. Diferencieu les línies vistes de les ocultes en les dues projeccions considerant el prisma com un sòlid i el triangle opac. [1,5 punts per cada projecció]



Dibuix 2. Opció B

Tema: Dièdric.

Exercici [6 punts en total]: Interpreteu la figura proposada i determineu-ne la nova projecció ortogonal, de manera que la projecció vertical del segment ab-$a'b'$-$a''b''$ passi a ser $a'''b'''$ (canvi de pla vertical). Dibuixeu únicament les línies vistes. [3 punts per les línies horitzontals i verticals i 3 punts per les línies inclinades]

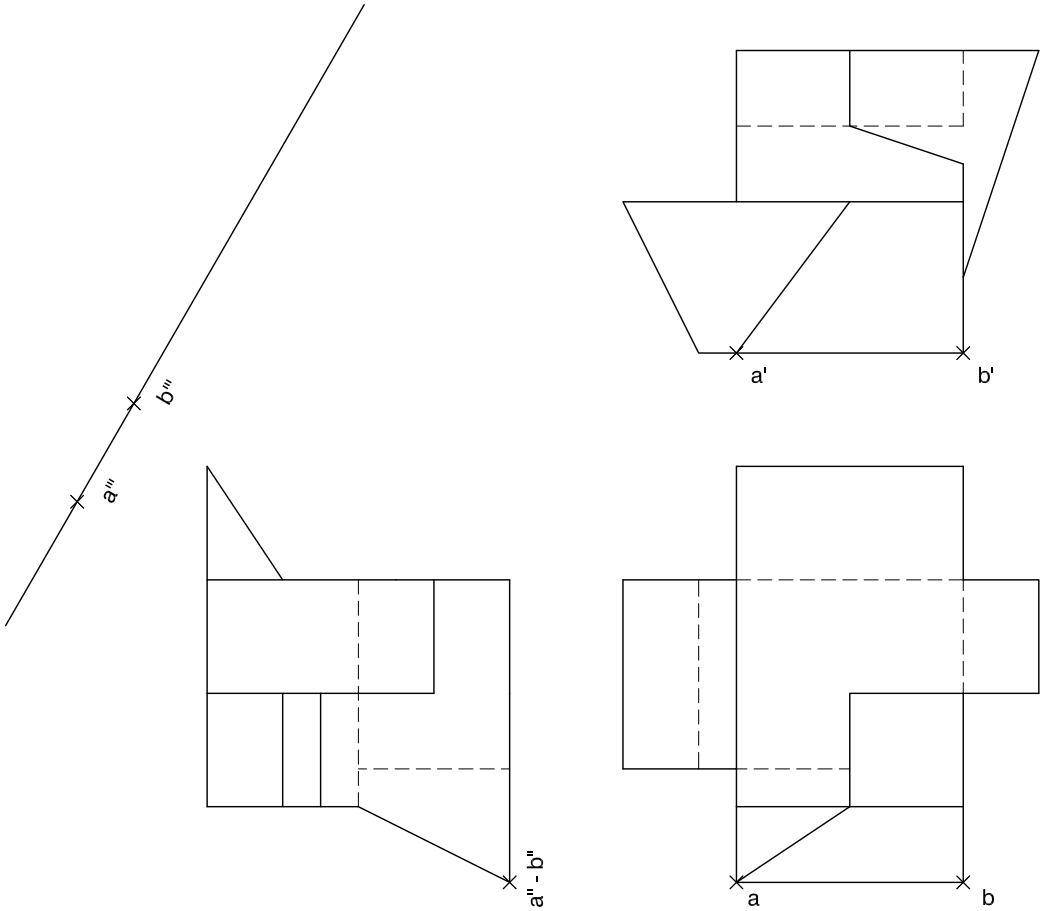

Dibuix 2. Opció C

Tema: Axonometria.

Exercici [6 punts en total]: Interpreteu el sòlid representat en planta, alçat i perfil, i, situant el punt p-p'-p'' en la posició P del paper, dibuixeu-ne l'axonometria amb la terna proposada (militar sense reducció) a escala doble (mesurant en les direccions dels eixos axonomètrics). Concreteu el sòlid únicament amb les línies vistes. [1,5 punts pel volum triangular central i 1,5 punts per cadascun dels tres volums inclinats]

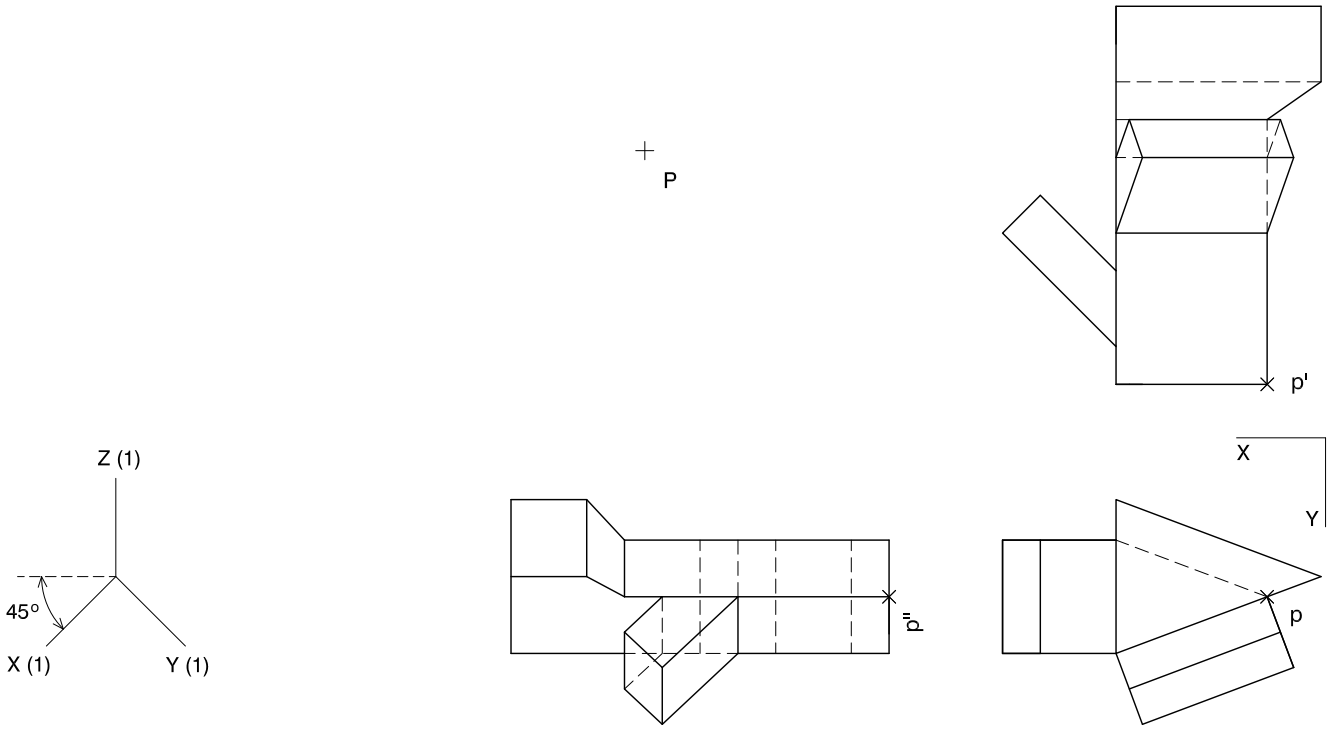

Dibuix 2. Opció D

Tema: Axonometria.

Exercici [6 punts en total]: Interpreteu el sòlid representat en planta, alçat i perfil, i, situant el punt p-p'-p'' en la posició P del paper, dibuixeu-ne l'axonometria amb la terna proposada (ortogonal dimètrica normalitzada DIN 5) a escala doble (mesurant en les direccions dels eixos axonomètrics). Concreteu el sòlid únicament amb les línies vistes. [1,5 punts pel volum inferior, 1,5 punts pel volum superior, 1,5 punts pel pla inclinat superior i 1,5 punts pel forat central]

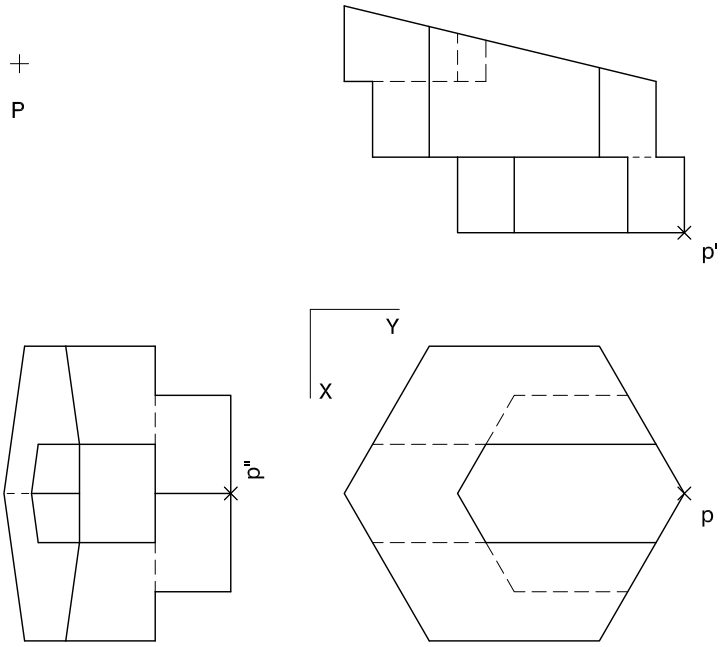

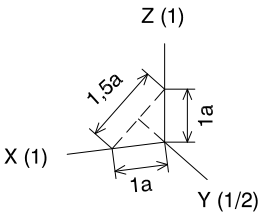

Etiqueta de l’alumne/a

Institut d’Estudis Catalans

L’Institut d’Estudis Catalans ha tingut cura de la correcció lingüística i de l’edició d’aquesta prova d’accés

Generalitat de Catalunya
Consell Interuniversitari de Catalunya
Oficina d'Accés a la Universitat

2020

Proves d'accés a la universitat

Dibuix tècnic

Sèrie 3

Indiqueu les opcions triades:

Exercici 1: Opció A ☐ Opció B ☐

Exercici 2: Opció A ☐ Opció B ☐ Opció C ☐ Opció D ☐

Qualificació			TR
Exercicis	1		
	2		
Suma de notes parcials			
Qualificació final			

Etiqueta de l'alumne/a

Ubicació del tribunal .....

Número del tribunal .....

Etiqueta de qualificació

Etiqueta del corrector/a

La prova consisteix a fer DOS dibuixos. Per al primer, heu d'escollir UNA de les dues opcions del dibuix 1 (A o B). Per al segon, heu d'escollir UNA de les quatre opcions del dibuix 2 (A, B, C o D).

Els enunciats dels exercicis es donen, en alguns casos, amb el dibuix final ja iniciat per tal d'evitar-vos construccions prèvies innecessàries. Si el text de l'enunciat inclou alguna mesura d'un element no dibuixat sense fer referència a l'escala, s'ha d'entendre que el dibuix corresponent s'ha de fer a escala 1:1.

Resoleu cadascun dels dibuixos a la mateixa pàgina on figura l'enunciat.

Feu els dibuixos amb llapis i amb l'ajuda del material que considereu adequat. No es poden utilitzar models de figures geomètriques.

Deixeu constància de les línies auxiliars utilitzades i concreteu, amb valor de línia, el resultat.

En la qualificació de cadascun dels dibuixos, s'assignarà un màxim del 80 % de la puntuació corresponent al procés seguit i a la solució correcta; el 20 % restant es destinarà a valorar la qualitat gràfica.

Dibuix 1. Opció A

TEMA: Geometria plana.

EXERCICI [4 punts en total]:

a) Dibuixeu un octògon regular de manera que tingui un costat sobre la recta *R*, un altre costat sobre la recta *S* i un vèrtex sobre la recta *T*. Deixeu constància del procés gràfic seguit. [3,5 punts]

b) Determineu el valor real del segment *R* tenint en compte que el dibuix està fet a escala 1:250, i escriviu-lo en la casella situada a la part inferior de la pàgina. [0,5 punts]

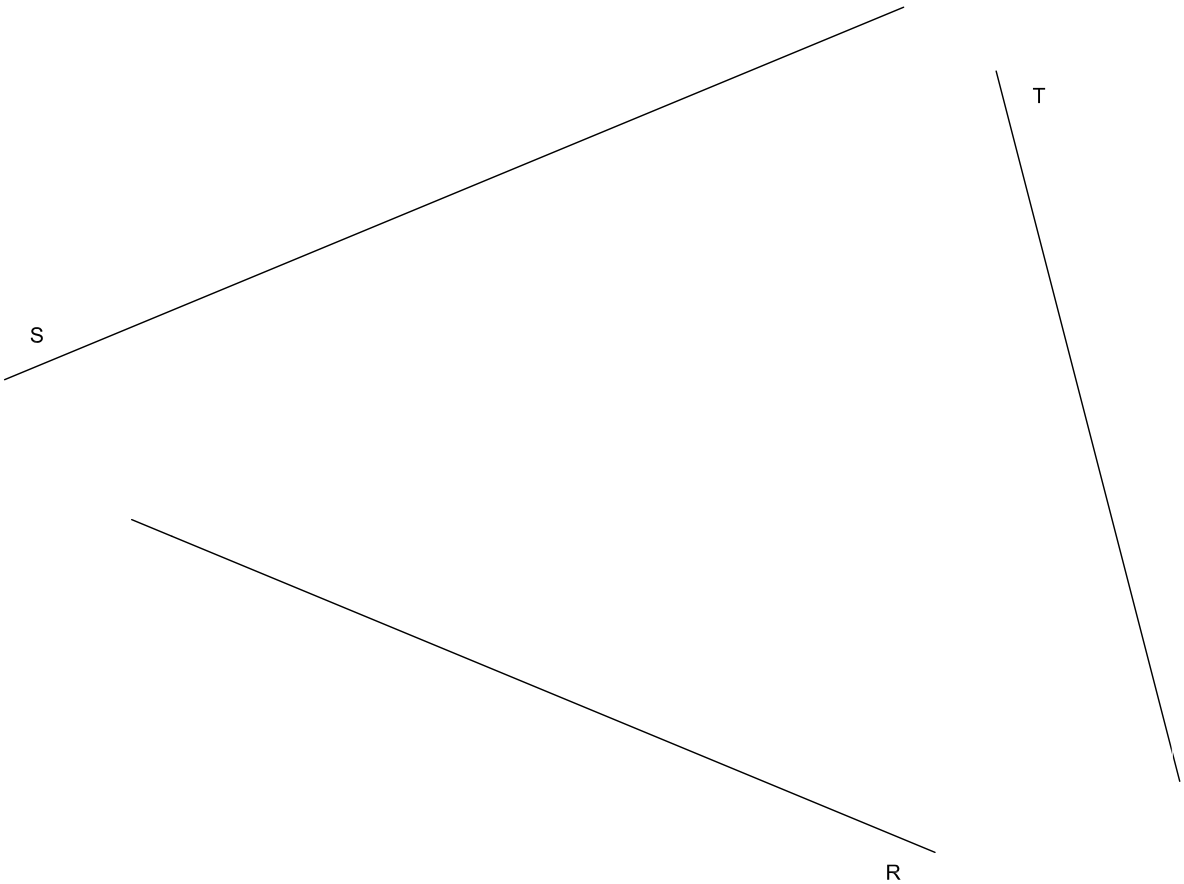

Segment *R*:	metres

Dibuix 1. Opció B

Tema: Geometria plana.

Exercici [4 punts en total]:

a) Dibuixeu el triangle ABC tenint en compte que el punt P és el seu incentre i el segment AB un costat donat. [1 punt]

b) Dibuixeu la circumferència circumscrita del triangle ABC. [1 punt]

c) Dibuixeu un triangle rectangle inscrit en la circumferència anterior, tenint en compte que la seva hipotenusa és paral·lela a la recta BC i que el seu costat inferior és paral·lel al segment AP. [1 punt]

d) Determineu el baricentre (G) del triangle rectangle trobat. [1 punt]

Deixeu constància dels processos gràfics seguits.

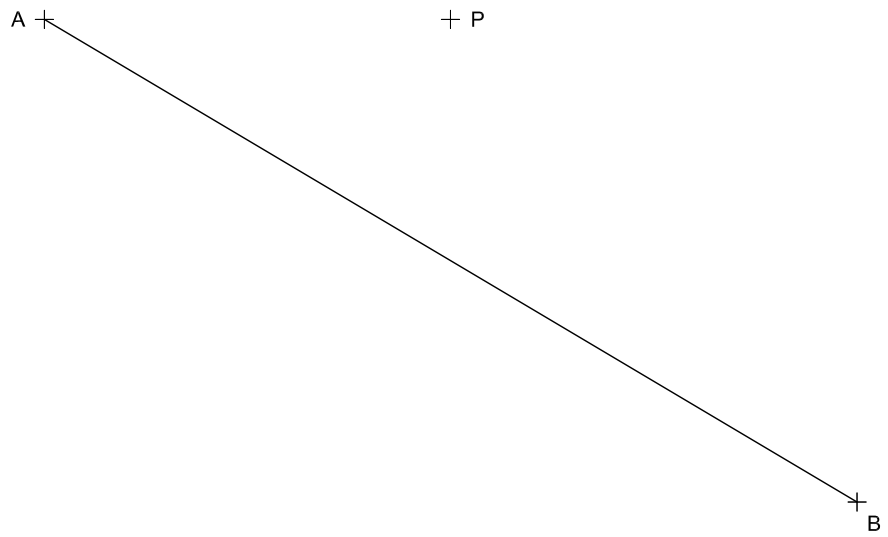

Dibuix 2. Opció A

Tema: Dièdric.

Exercici [6 punts en total]:

a) Dibuixeu les projeccions horitzontal i vertical de la línia que determina la distància mínima entre el punt *p-p′* i el pla triangular format pels punts *a-a′, b-b′ i c-c′*. [3 punts]

b) Dibuixeu la línia de distància mínima anterior en veritable magnitud. [1 punt]

c) Dibuixeu el pla triangular *abc-a′b′c′* en veritable magnitud. [2 punts]



Dibuix 2. Opció B

Tema: Dièdric.

Exercici [6 punts en total]:

a) Dibuixeu les projeccions horitzontal i vertical d'una piràmide regular hexagonal que té l'eix sobre la recta R-R' i el vèrtex en el punt v-v'. Cal tenir en compte que la seva base és un hexàgon regular amb centre en el punt c-c' i el segment S-S' com a costat. [3 punts]

b) Determineu la visibilitat de la piràmide en les dues projeccions considerant-la com un sòlid i diferenciant les línies vistes de les ocultes. [0,5 punts per cada projecció]

c) Dibuixeu en veritable magnitud la seva base hexagonal i una de les cares triangulars. [2 punts]

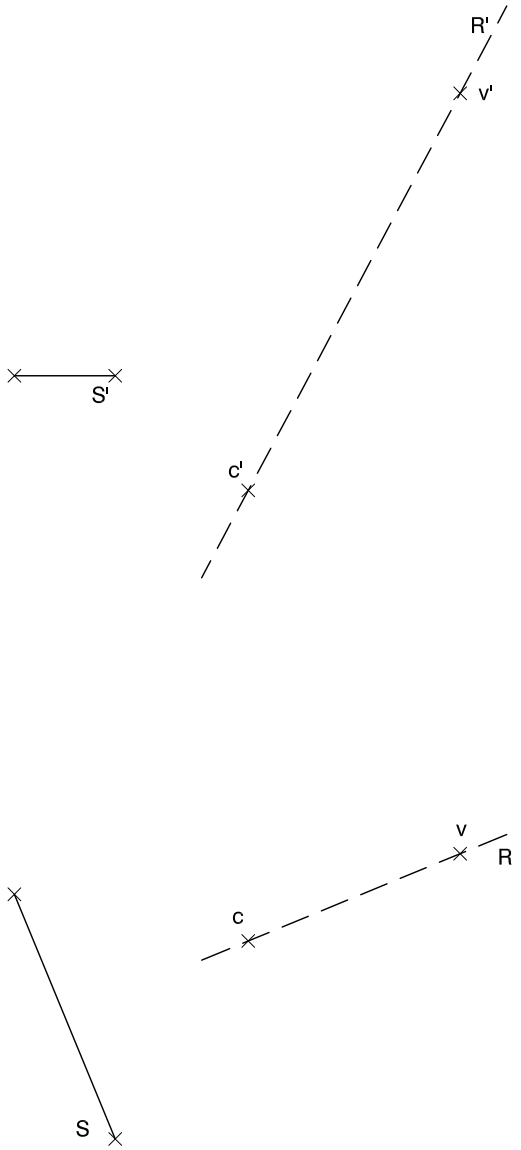

Dibuix 2. Opció C

Tema: Axonometria.

Exercici [6 punts en total]: Interpreteu el sòlid representat en planta, alçat i perfil, i, situant el punt p-p'-p'' en la posició P del paper, dibuixeu-ne l'axonometria amb la terna proposada (ortogonal dimètrica normalitzada DIN 5) a escala doble (mesurant en les direccions dels eixos axonomètrics). Concreteu el sòlid únicament amb les línies vistes. [3 punts pel volum cúbic de la dreta, 1,5 punts pel seu buidat i 1,5 punts pel volum cúbic de l'esquerra]

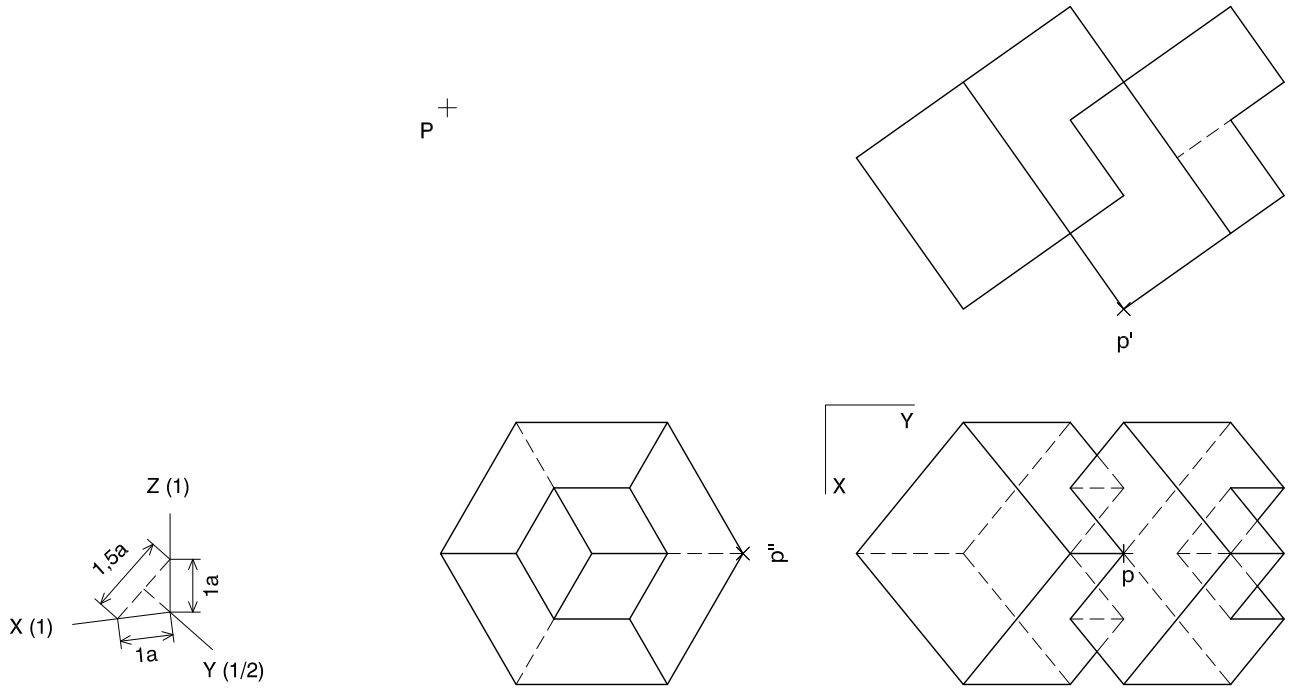

Dibuix 2. Opció D

Tema: Axonometria.

Exercici [6 punts en total]: Interpreteu el sòlid representat en planta, alçat i perfil, i, situant el punt p-p'-p'' en la posició P del paper, dibuixeu-ne l'axonometria amb la terna proposada (ortogonal isomètrica) a escala doble (mesurant en les direccions dels eixos axonomètrics). Concreteu el sòlid únicament amb les línies vistes. [2 punts pel volum central i 2 punts per cadascun dels dos volums semicilíndrics laterals]

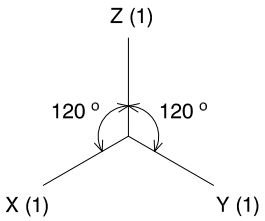

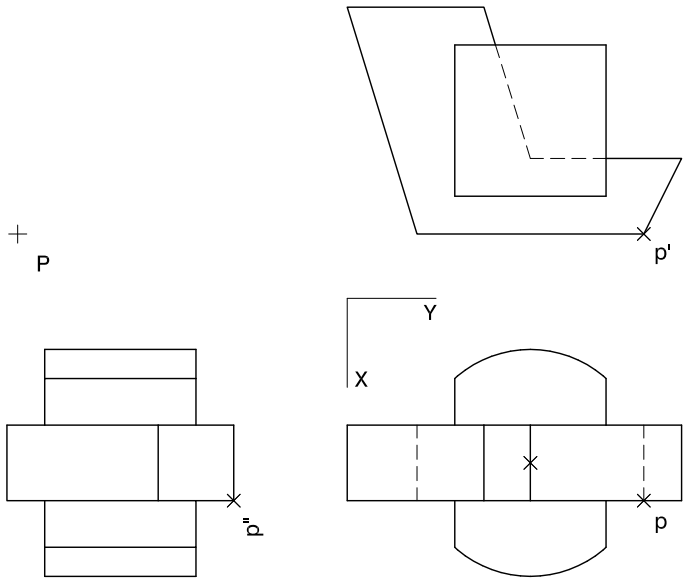

Etiqueta de l’alumne/a

Institut d’Estudis Catalans

L’Institut d’Estudis Catalans ha tingut cura de la correcció lingüística i de l’edició d’aquesta prova d’accés